ÁREA	EDUCACIÓN ÉTICA Y VALORES	GRADO		PRIMERO	
DOCENTE(S)	Mónica Janeth Chica González, María Adoralis Arias Vallejo, Natalia Quinto, Gloria Cecilia Restrepo.	PERÍODO	3	AÑO	2019
ESTUDIANTE				GRUPO	

RESPUESTAS

1	2	3	4	5
A	A	A	A	A
B	B	B	B	B
C	C	C	C	C

Las expresiones emocionales son comunes a todos los seres humanos y se consideran como emociones básicas: La alegría, La tristeza, La ira, El miedo, etc.

1. Elige el rostro que expresa tristeza es:

a.

b.

c.

Las normas de urbanidad nos ayudan a comportarnos de manera adecuada en lugares y espacios públicos.
2. Cuál de las siguientes imagenes representa una norma de urbanidad:

a.

b.

c.

3. En el Acuerdo de Convivencia de nuestra institución encontramos:
a. Talleres de Artística
b. Deberes y derechos
c. Directorio telefónico

4. Cuál de las siguientes imágenes representa la amistad:

a.

b.

c.

5. Un derecho mío como estudiante es:

a.

b.

c.

®©

ÁREA	EDUCACIÓN RELIGIOSA	GRADO		PRIMERO	
DOCENTE(S)	Mónica Janeth Chica González, María Adoralis Arias Vallejo, Natalia Quinto, Gloria Cecilia Restrepo.	PERÍODO	3	AÑO	2019
ESTUDIANTE				GRUPO	

RESPUESTAS

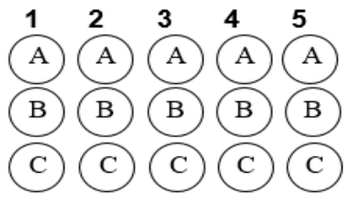

1. Las familias viven en una misma casa, elige la imagen que se asemeja a tú casa

a.

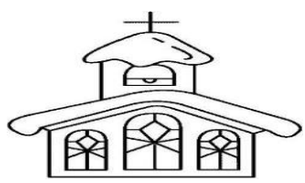
b.


c.

La Sagrada Familia, según la Iglesia Católica, denomina al conjunto compuesto por José, María y su hijo Jesús.

2. De acuerdo al texto anterior la familia de Jesús es:

a.

b.

c.

3. Jesús vino a servir y a dar su vida por todos. Elige la acción que cumple no con el mandamiento del amor.


a.


b.


c.

4. El símbolo de los cristianos es:

a.

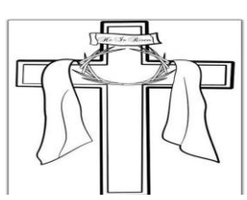
b.

c.

5. La madre de Jesús es:

a. Ana.

b. Samanta.

c. María.

ÁREA	CIENCIAS NATURALES	GRADO		PRIMERO	
DOCENTE(S)	Mónica Janeth Chica González, María Adoralis Arias Vallejo, Natalia Quinto, Gloria Cecilia Restrepo.	PERÍODO	3	AÑO	2019
ESTUDIANTE				GRUPO	

RESPUESTAS

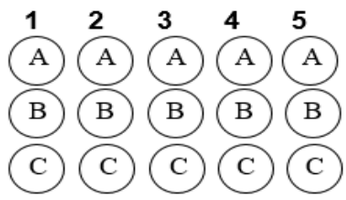

1. Señala la imagen que pertenece al método científico.

a.

b.

c.

2. Elige el objeto que produce el sonido más suave.

a.

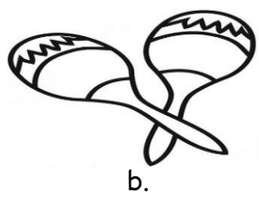
b.


c.

3. Una imagen que representa la flora es:

a.

b.


c.

4. Cuál de las siguientes imágenes representa el estado gaseoso del agua:

a.

b.


c.

5. Cuando metes agua en la cubeta y la llevas al congelador, el agua se encuentra en estado:

a.

b.

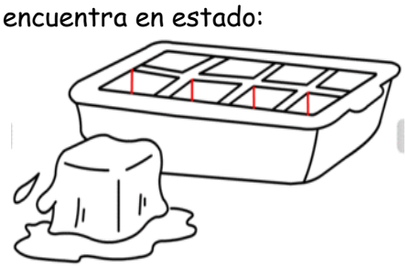
c.

ÁREA	LENGUA CASTELLANA	GRADO		PRIMERO	
DOCENTE(S)	Mónica Janeth Chica González, María Adoralis Arias Vallejo, Natalia Quinto, Gloria Cecilia Restrepo.	PERÍODO	3	AÑO	2019
ESTUDIANTE				GRUPO	

RESPUESTAS

1	2	3	4	5
A	A	A	A	A
B	B	B	B	B
C	C	C	C	C

COMPRENSION DE LECTURA

MIGUEL EL MONO

Miguel es un mono divertido. Le gusta contar chistes a sus amigos. Él come plátanos todos los días. Él vive en los árboles. A Miguel le gusta ser perezoso y dormir.

1. Cómo se llama el mono?

A. Maní
B. Miguel.
C. Moisés

2. Cómo es Miguel?

A. Divertido
B. Triste
C. Aburrido

3. Que le gusta hacer a Miguel?

A. Jugar beisbol
B. Contar chistes
C. Leer libros

4. Donde vie Miguel?

A. Los árboles
B. La biblioteca.
C. El gimnasio

5. Que come Miguel todos los días?

A. Pizza
B. Pan.
C. Plátanos

ÁREA	CIENCIAS SOCIALES	GRADO		PRIMERO	
DOCENTE(S)	Mónica Janeth Chica González, María Adoralis Arias Vallejo, Natalia Quinto, Gloria Cecilia Restrepo.	PERÍODO	3	AÑO	2019
ESTUDIANTE				GRUPO	

RESPUESTAS

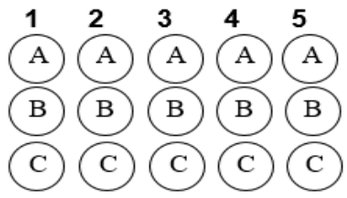

1. Una de las siguientes prácticas, corresponde a un uso RESPONSABLE de los recursos naturales ¿Cuál es?

A. Dejar la canilla abierta después de lavarse las manos.
B. Permanecer en silencio durante las clases.
C. Depositar la basura en la caneca correspondiente.

2. De las siguientes imágenes, la que representa una vivienda antigua es:

A. B. C.

3. En la naturaleza encontramos recursos renovables y NO renovables ¿cuál de los siguientes gráficos representa un recurso renovable?

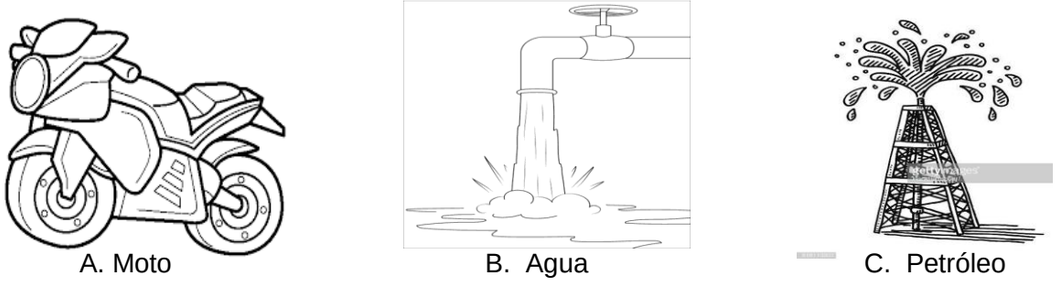

A. Moto B. Agua C. Petróleo

4. Existen paisajes naturales y paisajes artificiales, este último se caracteriza por ser un espacio urbano y basado en construcciones elaboradas por las personas. ¿Cuál de los siguientes paisajes representa un paisaje natural?

A. B. C.

5. Una de las siguientes conductas representa un buen comportamiento de los (a) estudiantes en la Institución Educativa. ¿Cuál es?

A. Fomentar la indisciplina en la formación.
B. No emplear juegos bruscos.
C. Botar los cuadernos en la caneca.

ÁREA	EDUCACIÓN FÍSICA RECREACIÓN Y DEPORTES	GRADO		PRIMERO	
DOCENTE(S)	Mónica Janeth Chica González, María Adoralis Arias Vallejo, Natalia Quinto Martínez, Gloria Cecilia Restrepo.	PERÍODO	3	AÑO	2019
ESTUDIANTE				GRUPO	

RESPUESTAS

1	2	3	4	5
A	A	A	A	A
B	B	B	B	B
C	C	C	C	C



1. Reconociendo la ubicación del espacio. ¿Quién hay en medio de los dos niños?
   A. Un pájaro.
   B. Una niña.
   C. Un corazón.

2. Teniendo en cuenta la ubicación espacio-temporal. ¿Qué animal se encuentra ubicado al lado de la pelota?
   A. Un perro.
   B. Un pajarito.
   C. Una gallina.

3. Todas hacen parte de la orientación del cuerpo menos:
   A. Izquierda - Derecha
   B. Nube - Lluvia
   C. Delante - Atrás

4. Hacía que dirección va el avión.
   A. Derecha
   B. Abajo
   C. Arriba



5. Según el dibujo ¿Cuántos pollitos hay dentro el lago?
   A. 0
   B. 4
   C. 2

®©

ÁREA	EDUCACIÓN ARTÍSTICA	GRADO		PRIMERO	
DOCENTE(S)	Mónica Janeth Chica González, María Adoralis Arias Vallejo, Natalia Quinto Martínez, Gloria Cecilia Restrepo.	PERÍODO	3	AÑO	2019
ESTUDIANTE				GRUPO	

RESPUESTAS

1	2	3	4	5
A	A	A	A	A
B	B	B	B	B
C	C	C	C	C

1. Si deseas decorar con papeles de colores una ficha y no tienes tijeras puedes:
A. Colorear.
B. Rasgar
C. Pelear.

2. El municipio de Itagüí cuenta con importantes y destacadas obras de arte. La siguiente obra está ubica en

A. Parque principal de Itagüí.
B. Parque de las Chimeneas.
C. Parque del Artista.

3. Realiza el dibujo en cuadricula según la muestra y colorea

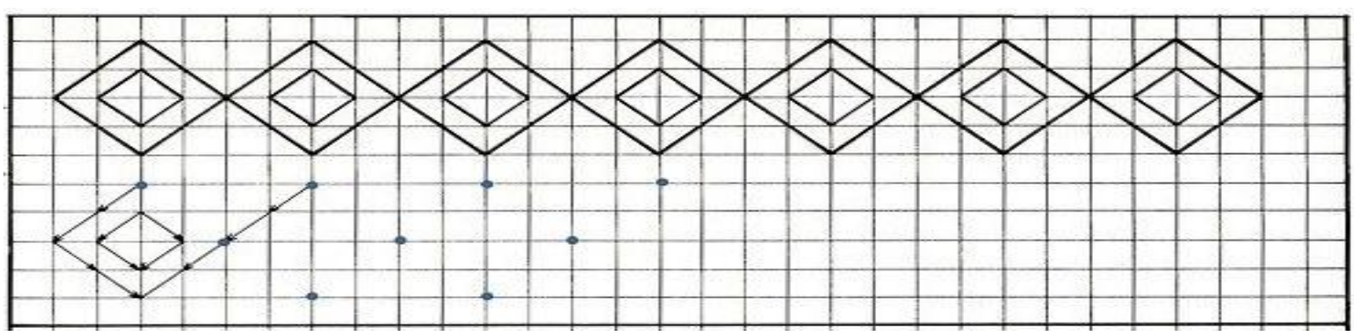

4. En el mes de agosto celebramos en la institución la antioqueñidad y realizamos el desfile de:

A. Autos antiguos
B. Silletas.
C. Mitos y leyendas.

5. Colorea según el color indicado.

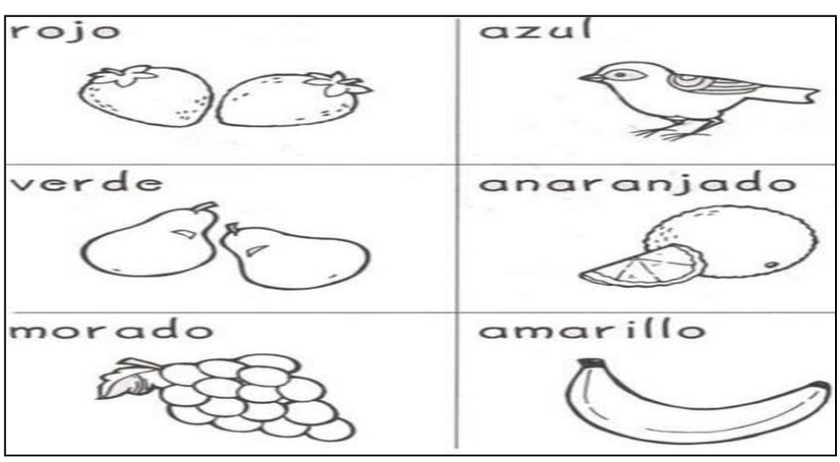

ÁREA	**TECNOLOGÍA E INFORMATICA**	GRADO		**PRIMERO**	
DOCENTE(s)	NATALIA QUINTO MARTINEZ, MARIA ADORALIS ARIAS VALLEJO, MONICA JANETH CHICA GONZALEZ, GLORIA CECILIA RESTREPO RODRIGUEZ.	PERIODO	3	AÑO	2019
ESTUDIANTE				GRUPO	

RESPUESTAS

1	2	3	4	5
A	A	A	A	A
B	B	B	B	B
C	C	C	C	C

Lee con atención el siguiente texto y responde las preguntas de la 1 a la 3:

La familia de Mateo está planeando un viaje de vacaciones para conocer la playa y muchos lugares fascinantes y entre todos decidieron hacer un viaje, pero la mamá estaba un poco preocupada porque deben ir en ***avión.*** Al final buscaron en ***internet*** fotos y videos de los lugares, de lo maravilloso que es viajar en avión y así se animará a ir. Estando allí tomaron muchas fotos para guardar por siempre los lindos recuerdos de pasar en familia en un lugar tan hermoso.

1. El medio de transporte que utiliza la familia de Mateo para hacer el **viaje** se clasifica en los medios de transporte

   A. los aéreos.
   B. los acuáticos.
   C. los terrestres.



2. Indica cuál imagen representa las tres reglas ecológicas para cuidar el medio ambiente.

A.

B.

C.

3. El artefacto tecnológico que utilizaron para tomar unas lindas fotos fue

   A. una grabadora.
   B. un celular.
   C. Un computador.

4. La parte del computador que permitió que la familia de Camilo viera las fotos e imágenes es

   A. el teclado.
   B. el mouse.
   C. el monitor o pantalla.



5. Colorea la imagen y escribe que es lo que más te gusta de la sala de sistemas.

_____

®©